★くるまが 4だい あります。くるまは じてんしゃよりも 2だい おおいです。

1.おおいのは どっち？

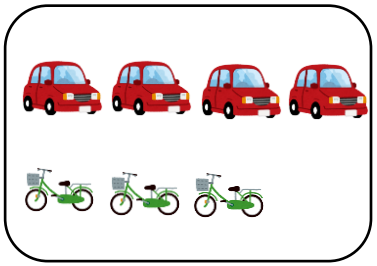

（　　）

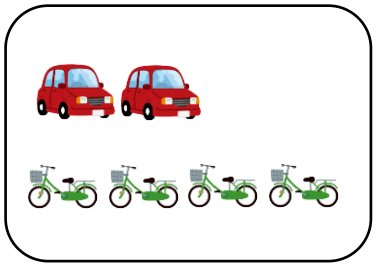

（　　）

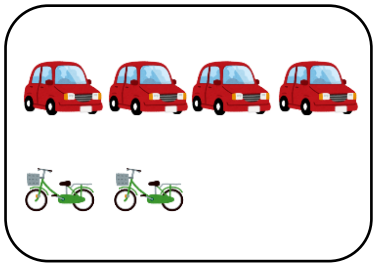

（　　）

★えんぴつが 4ほん あります。えんぴつは けしごむよりも ２ほん おおいです。



（　　）

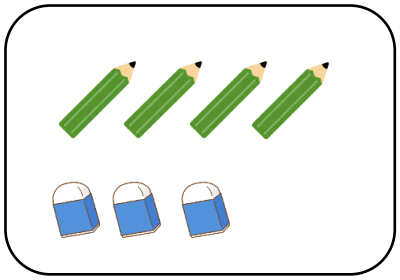

（　　）



（　　）

★えんぴつが 3ぼんあります。けしごむは えんぴつよりも 1ぽん すくないです。



（　　）

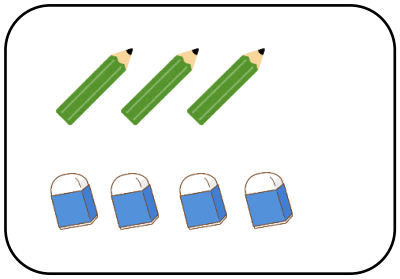

（　　）

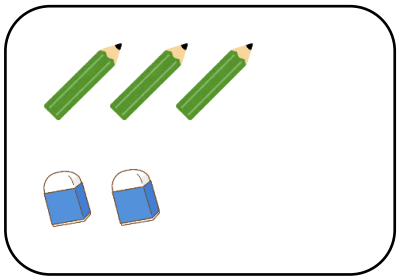

（　　）

★くるまは じてんしゃより 2だい　おおいです。

1.おおいのはどっち？

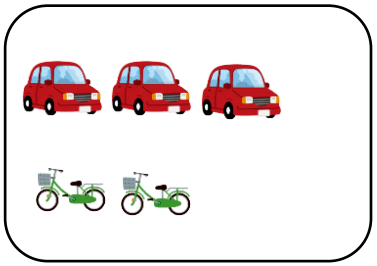

（　　）

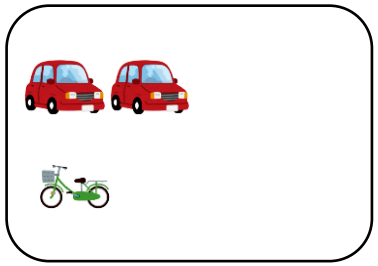

（　　）

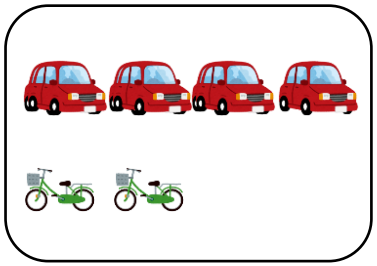

（　　）

★えんぴつよりも けしごむは 3つ すくないです。



（　　）

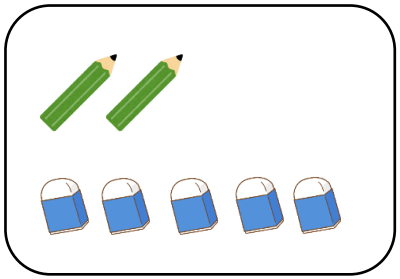

（　　）



（　　）

★えんぴつは けしごむよりも 2つ少ないです。



（　　）

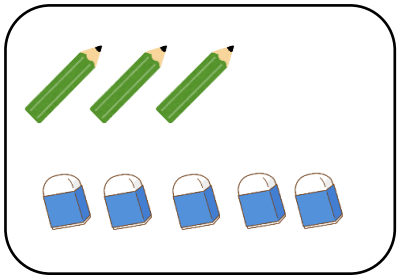

（　　）

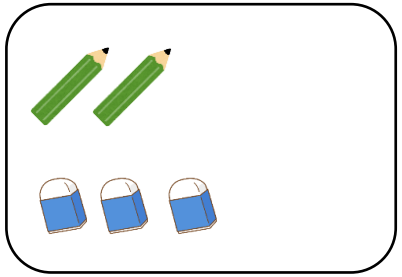

（　　）

★くるまが ４だいあります。くるまは じてんしゃよりも 2だい おおいです。

1.おおいのは どっち？

2.ずを かいてみよう。

★えんぴつは けしごむより 3ぼん おおいです。

1.おおいのはどっち？

2.ずを かいてみよう。